(1) Finde den besten Zug für Weiß.



(2) Finde den besten Zug für Schwarz.

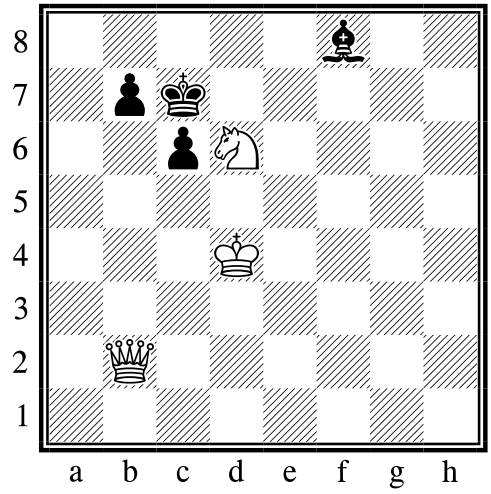

(3) Schwarz ist hier am Zug. Soll er eine der gegnerischen Figuren Schlagen? Wie?



(4) Kann man mit Weiß gewinnen? Wie?



(5) Schwarz ist hier am Zug. Finde die beste Fortsetzung für ihn.



(6) Weiß am Zug. Wie kann man Matt setzen?